Niveau : sixieme

Les nombres décimaux

Exercice 53 : droite graduée et nombre décimal

Dans chaque cas ci-dessous, les points A, B et C sont placés sur la demi-droite graduée. Donne leur abscisse sous forme d'une fraction décimale.

a.

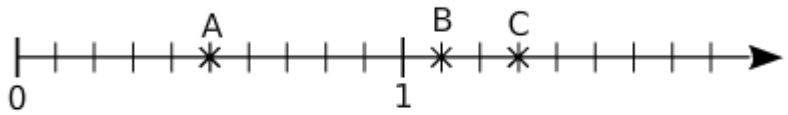

b.

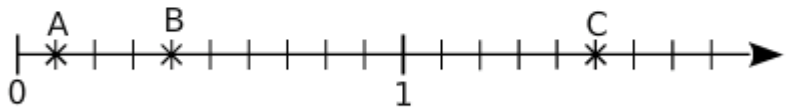

c.

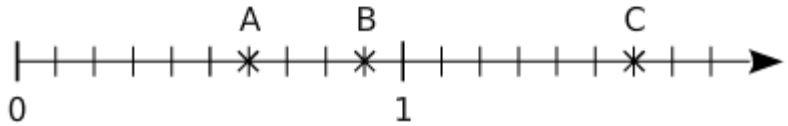

Document pédagogique téléchargé sur maths-pdf.fr