Niveau : quatrieme

La translation

Exercice 16 : translation et construction d'images

Effectue les constructions demandées.

a.

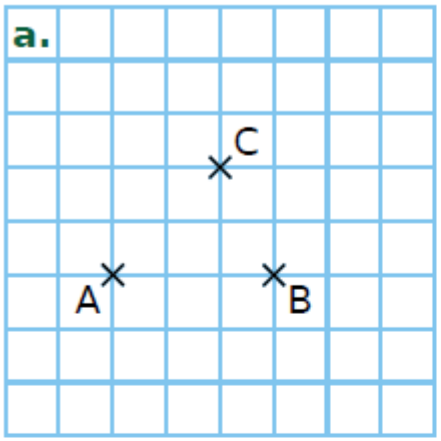

Construis D, l'image de B par la translation qui transforme A en C.

b.

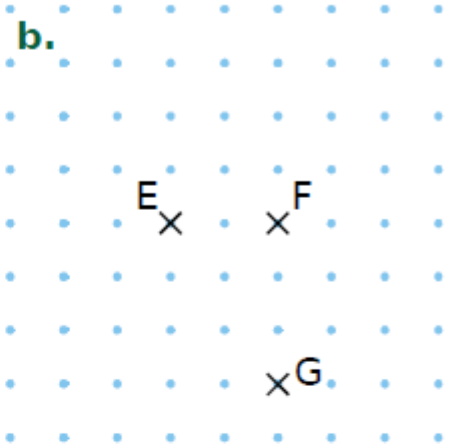

Construis H, l'image de E par la translation qui transforme G en F.

c.

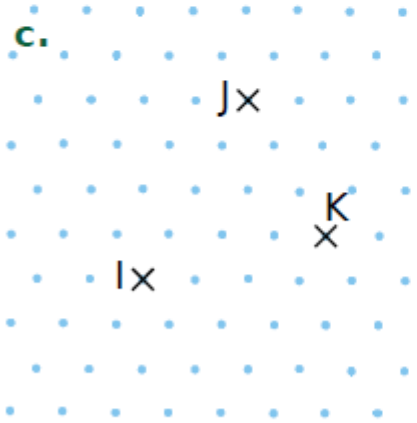

Construis L, l'image de I par la translation qui transforme K en J.

d.

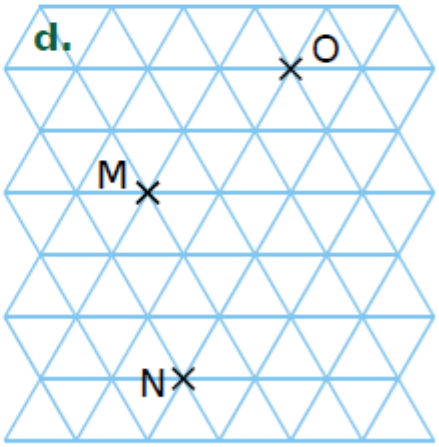

Construis P, l'image de N par la translation qui transforme M en O.